２年生数学　三角形の合同条件

２年　　組　　番 名前

次の図で同じ辺に印のついている辺や角は等しいです。（矢印は平行）
そのとき，合同な三角形を記号を使って表しなさい。
またそのときの合同条件を□に書き，そのとき使った等しい辺や角も書きなさい。(理由も書くこと)

(1)

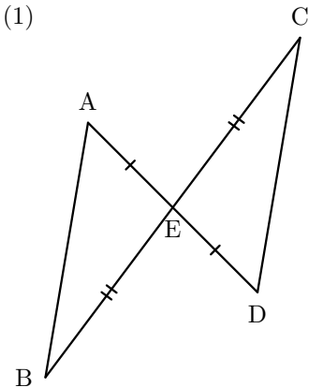

≡

□

＝

＝

＝

(2)

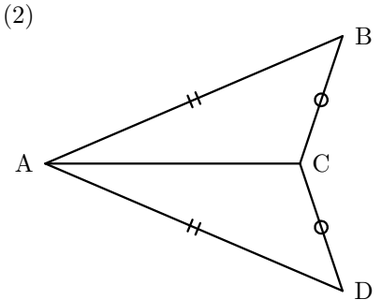

≡

□

＝

＝

＝

(3)

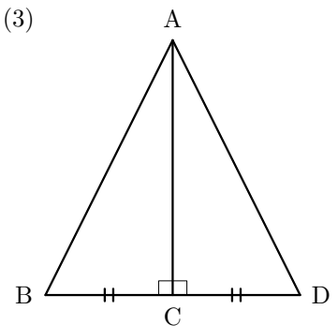

≡

□

＝

＝

＝

(4)

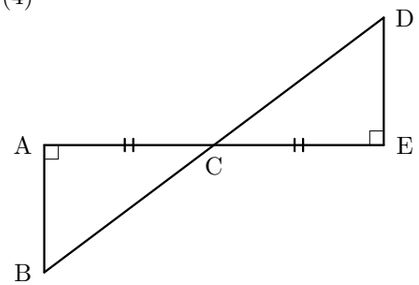

≡

□

＝

＝

＝

(5)

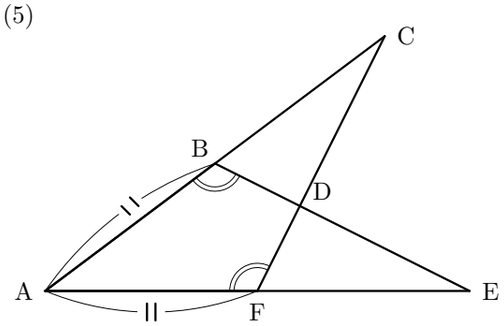

≡

□

＝

＝

＝

(6)

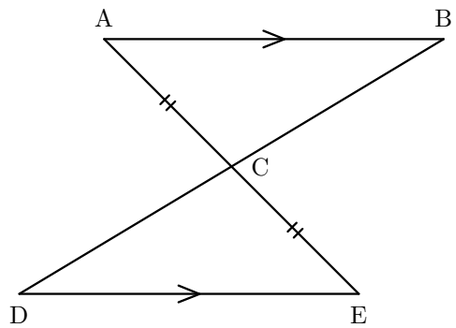

AB=ED は使えない

≡

□

＝

＝

＝