組	番	名前

1　ある中学校の野球部員 19 人のハンドボール投げの記録の平均値を求めると，25m でした。
この結果からかならずいえることを，次の (ア)〜(ウ) から選びなさい。

(ア) 記録が 25m だった部員が一番多い。
(イ) 記録を大きさの順に並べたとき，大きい方から数えて 10 番目の部員の記録が 25m である。
(ウ) 全員の記録を合計すると 475m である。

2　次の (1)〜(5) のそれぞれにあてはまるものを，A〜D のヒストグラムからすべて選びなさい。

(1) 範囲がもっとも大きいものはどれですか。

(2) 平均値と中央値と最頻値がほとんど同じになるものはどれですか。

(3) 平均値がもっとも小さいものはどれですか。

(4) 中央値が平均値よりも大きくなるものはどれですか。

(5) 最頻値が中央値よりも小さくなるものはどれですか。

A
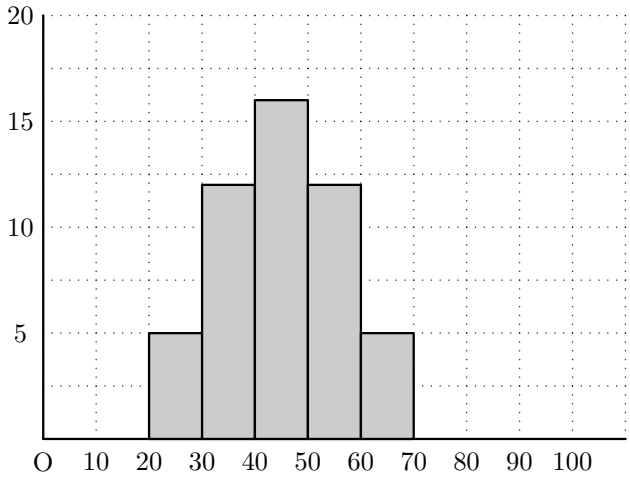

B
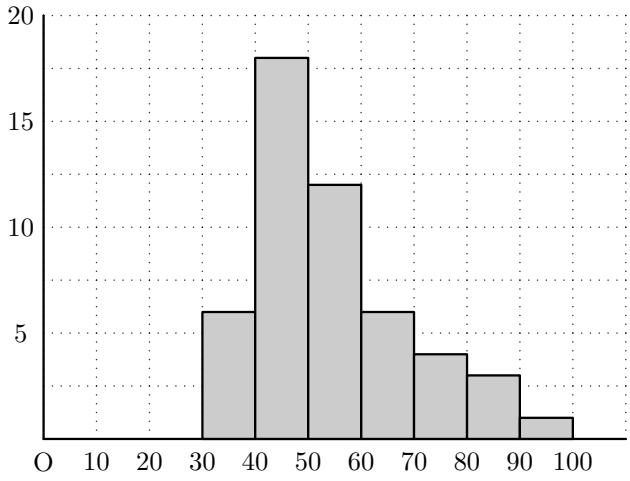

C
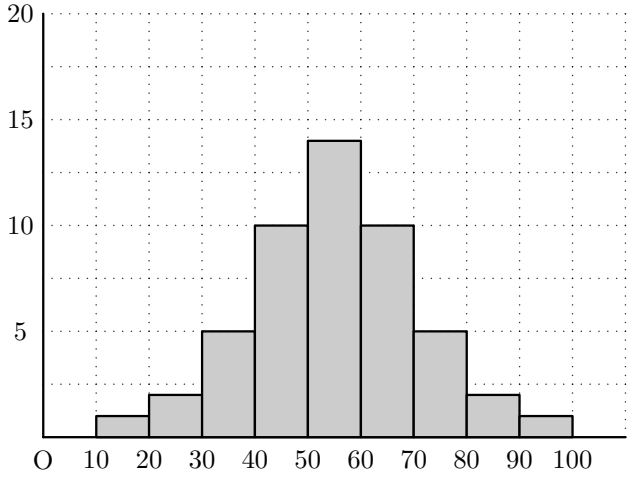
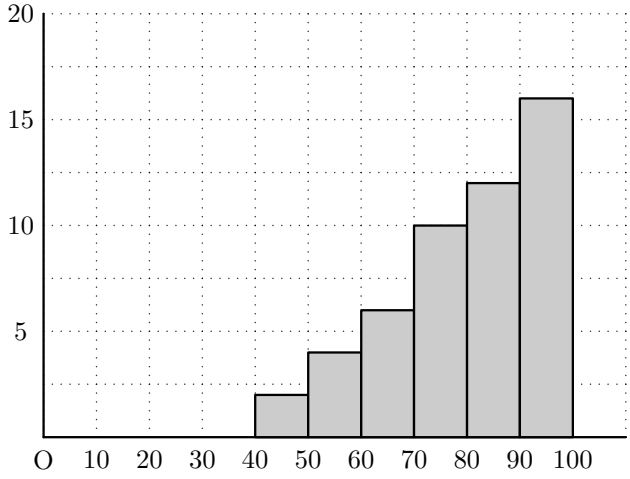
D